Анощенко Даниил 50 баллов

Всероссийская олимпиада школьников 2019-2020 учебный год/

50 б

Предмет география.11 класс

Продолжительность -2часа 15 минут.
Максимальное количество баллов –100

ШИФР 11-К-5-003

Уважаемые участники олимпиады!
Перед Вами задания школьного этапа Всероссийской олимпиады школьников по географии. Во время выполнения заданий пользоваться любыми справочными материалами, включая школьные атласы, энциклопедии, словари, не разрешается. Категорически запрещается использовать мобильные телефоны (в т.ч. в качестве микрокалькулятора).
Перед началом работы обратите внимание на то, с какими типами заданий вам придётся работать.
1. Тестовые задания закрытого типа. Выполняя их, внимательно читайте формулировку вопроса и в соответствии с этим выбирайте один или несколько вариантов ответов.
2. Вопросы на соответствия. Вы увидите две колонки, которые нужно соотнести друг с другом. При выполнении таких заданий вам необходимо выбрать порядковый номер объекта из первой колонки и соответствующее окошко во второй колонке.
3. Тестовые задания на определение последовательности. Вам нужно будет выбрать правильную последовательность соответствующих объектов.
4. Тестовые задания открытого типа. Выполнение этих заданий предполагает дать однозначный ответ, который состоит из одного или нескольких слов. Это слово (слова) записываются только в именительном падеже. Если вопрос требует указать один объект, явление, процесс и т.п., то необходимо вписать его название. Например, Капские горы. Если вопрос требует указать два или более объектов, явлений, процессов и т.п., то необходимо вписать их названия последовательно, указав соответствующие буквы, под которыми они зашифрованы. Одно название должно быть отделено от другого запятой, а после каждой буквы следует ставить закрывающую скобку и пробел. Например, А) Москва, Б) Пермь.
5. Задания с развернутым ответом. Данное задание предполагает полный ответ на вопрос. Обращаем ваше внимание, что в данном задании может быть главный и несколько второстепенных вопросов.
Время на выполнение работы –135 минут. Максимальное количество баллов за задания – 100.
Надеемся, что наши задания будут для Вас интересными. Желаем Вам удачи!

Тестовый тур

1. Выберите зависимые территории, метрополией которых является Великобритания.
+ (А) Каймановы Острова Б) Бермудские Острова В) Остров Св. Елены
+ (Г) Фолклендские Острова + (Д) Гибралтар

0,65

2. Выберите руды, о которых идёт речь в следующем тексте.
Эти руды были известны саксонцам, которые применяли их в стекловарении для окраски стёкол в зелёный цвет. Только в середине XVIII в. при исследовании этих руд был открыт сам металл. Данный металл выплавляют в Норильске, Орске, Верхнем Уфалее. Он используется в производстве аккумуляторов, брекет-систем в зубопротезировании, монет, обмотки струн музыкальных инструментов, используется во многих химико-технологических процессах в качестве катализатора.
А) кобальтовые руды Б) медные руды (В) никелевые руды
Г) титановые руды Д) цинковые руды

1,5

3. Выберите столицу государства, на территории которого осуществляется большая часть добычи минерала солнечно-оранжевого цвета, внутри которого могут быть вкрапления в виде насекомых или растений.

11-К-5-003

Аношенко Д

11. Установите соответствия: места региональных экологических кризисов и катастроф – причины (факторы), которыми они были вызваны.

А) Мексиканский залив Б) Челябинская область, район г. Кыштым
В) Семипалатинский полигон Г) Чёрные Земли Д) залив Минамата, Япония

1) антропогенное опустынивание
2) последствия испытаний ядерного оружия
3) ртутное загрязнение
4) загрязнение радиоактивными изотопами вследствие аварии
5) разлив нефти вследствие аварии на месторождении

А Б В Г Д
3 5 4 2 1
– – – – –
0б

12. Установите соответствия: транснациональная корпорация – страна, где располагается ее штаб-квартира.

А) Vodafone Б) Airbus В) Nestle Г) RoyalDutchShell Д) Siemens

1) Швейцария 2) Нидерланды 3) Великобритания 4) Германия 5) Франция

12.
А Б В Г Д
3 5 1 4 2
+ + + –
5б

13. Заполните пропуски в следующем тексте.

Россия находится в одиннадцати часовых зонах. Когда в Москве полдень, в трёх субъектах РФ, в соответствии с законодательством, уже 1300. Административный центр первого субъекта РФ – (А) – с 1935 по 1991 гг. назывался в честь советского государственного и партийного деятеля. Административный центр второго субъекта РФ – (Б) – называют оружейной столицей России. Здесь с 1948 г. выпускают оружие, которое изображено на гербах некоторых государств. В водоёмах третьего субъекта РФ (В) водится шесть видов рыб семейства осетровых, черноспинка, белорыбица и другие.

А - Санкт-Петербург Б - Ижевск В - Алтайский край

0б

14. Установите соответствия: логотип российской компании – город, в котором находится ее крупнейшее предприятие – основной вид продукции.

А Б В Г Д
~~2~~ ~~3~~ ~~5~~ ~~1~~ ~~4~~
V III II IV 1



А) Б) В) Г) Д)

1) Санкт-Петербург 2) Нижний Тагил 3) Братск
4) Челябинск 5) Невинномысск

I) алкогольные и безалкогольные напитки II) грузовые вагоны
III) черные металлы IV) минеральные удобрения V) цветные металлы

0б

15. Ответьте на вопросы

Это государство расположено на одноимённых островах. Первым из европейцев эти острова открыл Ф. Магеллан в 1521 г., в день Святого Лазаря. В настоящее время острова носят имя наследного принца, который в 1556 г. стал королём Испании. Это название островам дал Р.Вильяловос. Столица государства – второй по численности населения город. Она расположена на крупнейшем по площади острове страны. Название столицы переводится как «место, где много деревьев индиго».

Назовите государство, его столицу. К какой группе стран по географическому положению и уровню социально-экономического развития можно отнести данное государство?

гос.во: Филиппины; столица Манила. По географо положению можно отнести к группам стран Океании. С социально-экономической к группе индустриальных стран.

2

Теоретический тур

Анощенко Д

1+ 0б

А) Лима Б) Богота В) Габороне Г) Луанда Д) Москва

4. Выберите термины, связанные с процессом определения границы между двумя государствами на основе дипломатических переговоров.

1б

А) денудация Б) демаркация В) депортация Г) денонсация Д) делимитация

5. Выберите виды продукции пищевой промышленности, по импорту которых Россия входит в первые пятёрки государств.

0,5б

А) вино Б) животное масло В) растительные масла
Г) сахар Д) сыры и творог

6. Выберите страну, в которой отмечается максимальное абсолютное количество представителей негроидной расы.

0б

А) США Б) Либерия В) Индонезия Г) Бразилия Д) Алжир

А Б В Г Д
3 1 4 5 2
1б

7. Установите соответствия: атмосферное явление – географическая область, для которой оно наиболее характерно.



А) самум Б) тайфун В) фён Г) южак Д) бора

1) Филиппинские острова 2) побережье Адриатического моря 3) Северная Африка
4) Восточные склоны Скалистых гор 5) северное побережье Чукотки

8. Установите соответствия: местное название природного комплекса – страна, где он представлен.

А Б В Г Д
4 2 5 3 1
6б

А) джунгли Б) пампа В) прерия Г) сельва Д) скрэб
1) Австралия 2) Аргентина 3) Бразилия 4) Индия 5) США

9. В эпоху научно-технической революции после Второй Мировой войны в мире появились новые формы организации науки – технопарки и технополисы. Установите соответствия: технопарк или технополис – страна, в которой он расположен.

А Б В Г Д
2 + 4 3 5
0б

А) Лувен (Лёвен) Б)Даедук В) Силикон-Вэлли
Г) Милтон Кейнс Д) София-Антиполис
1) Великобритания 2) США 3) Франция 4) Бельгия 5) Республика Корея

10.Установите соответствия: географический процесс (понятие или явление) – направление географии, которое его изучает.

А Б В Г Д
4 2 3 5 1
0,5б

А) распространение религий на планете
Б) сельская местность
В) географические образы территории
Г) особенности поведения человека, формируемые средой его обитания
Д) географические аспекты глобальных проблем
1) бихевиористская география
2) георуралистика 3) конфессиональная география
4) геоглобалистика 5) имажинальная география

1. **Определите азимут из точки К на точку В**, если известно, что треугольник АВК является равносторонним, и сторона АК данного треугольника перпендикулярна обозначенному на рисунке направлению на север.

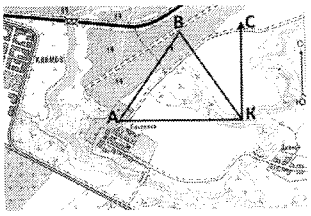

05

2.

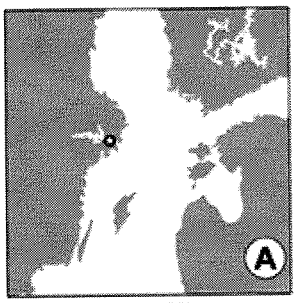

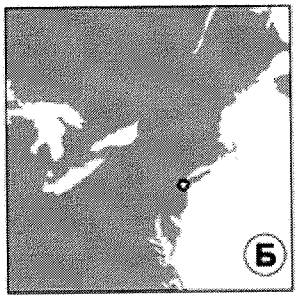



1

2

3

Впишите во вторую колонку таблицы номера рисунков так, чтобы образовались осмысленные пары «город — рисунок». Поясните, почему вы так сделали.

Объект	Рисунок	Пояснение
А	3	Статую свободы находится в Нью-Йорке
Б	1	Родина Карлсона - Стокгольм
В	2	Игры 1960 года, которые прошли в Риме

5
5
5

3. Определить падение и уклон реки Вуокса, если известно, что высота истока – 74 м, высота устья – 4 м, длина реки – 156 км.

4. Знаменитая Мэри Поппинс в своей песенке исполнила: «Это было прошлым летом, в середине января, в тридесятом королевстве, там, где нет в помине короля».
Назовите государство и его столицу, которое соответствует этим условиям, если известно, что его столица – не является портом? Приведите необходимые объяснения.

3. Падение = $H_{исток} - H_{устья} = 74 - 4 = 70$ м. 5

Уклон = $\frac{\text{Падение}}{L} = \frac{20000\text{ см}}{156\text{ км}} \approx 448,718$ 5

5

4. Австралия. т.к. у них королева, а не король, ~~либо~~ 3

зима у них наблюдается, когда у нас лето, а столица Канберра

не порт, а город внутри страны.

10